Actividad Semanal Historia, Geografía y Ciencias Sociales
3° Año Básico
Docente de Asignatura: Jacqueline Madrid Orellana

OA	(OA 8) Identificar y ubicar en mapas las principales zonas climáticas del mundo y dar ejemplos de distintos paisajes que pueden encontrarse en estas zonas y de cómo las personas han elaborado diferentes estrategias para habitarlas.
Objetivo semanal	Conocer y distinguir los diferentes climas presentes en las zonas climáticas del planeta mediante apoyo visual para realizar las actividades del texto del estudiante.
Fechas	Semana del 07 al 11 de septiembre del 2020

Unidad N 1: Ubicación espacial y líneas imaginarias del planeta

Asignatura: Historia, Geografía Ciencias Sociales

Curso: 3º Básico

Mes: Septiembre

Apuntes: 15

"Hola queridos estudiantes y familia"
Bienvenidos a nuestra clase de Historia. Esta semana seguiremos aprendiendo, seguir con ese maravilloso entusiasmo y esfuerzo.

Materiales esenciales

Lápiz grafito	Goma de borrar	Cuaderno de asignatura

Y lo más importante un lugar cómodo para trabajar

A continuación, te mostrare lo que realizaremos durante la clase de Historia

Ruta de aprendizaje

Recordar contenidos clase anterior	**Conocer Los diferentes climas de las Zonas Climáticas**	**Realizar actividades del texto escolar** **Responder preguntas**	**Verificar El cumplimiento del objetivo de la clase.**

Antes de comenzar vamos a recordar sobre la clase anterior zonas climáticas

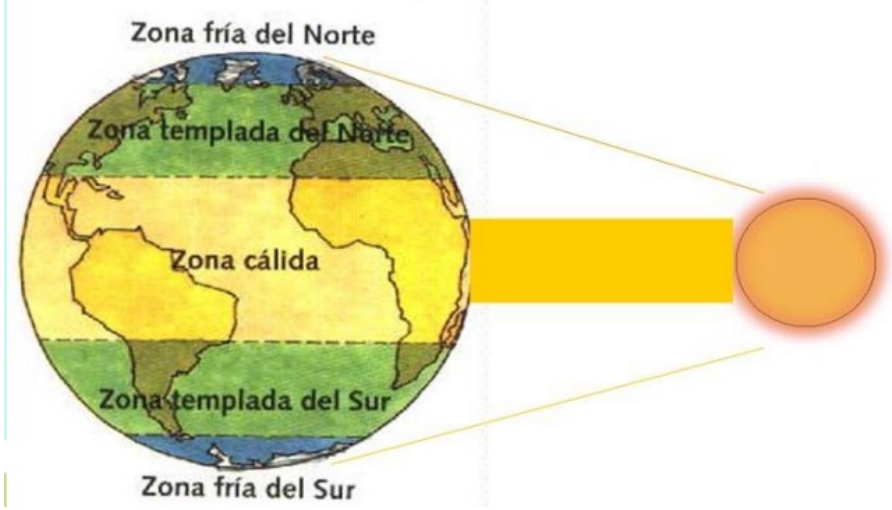

Las zonas climáticas, los trópicos, los círculos polares y la línea del ecuador no solo nos permiten ubicar lugares en la Tierra. También nos ayudan a comprender por qué existen diferentes tipos de clima en nuestro planeta. La Tierra gira alrededor del Sol. Este movimiento, llamado traslación, sumado a la forma del planeta, produce que la luz y el calor del Sol lleguen a la superficie terrestre de manera directa, o bien con diferente grado de inclinación. Esto da origen a distintas zonas climáticas.

clima: características de temperatura, precipitaciones, viento, humedad, etc., de un lugar en un período determinado.

Para identificar las zonas climáticas se han definido líneas imaginarias que permiten ubicarse mejor en la Tierra.

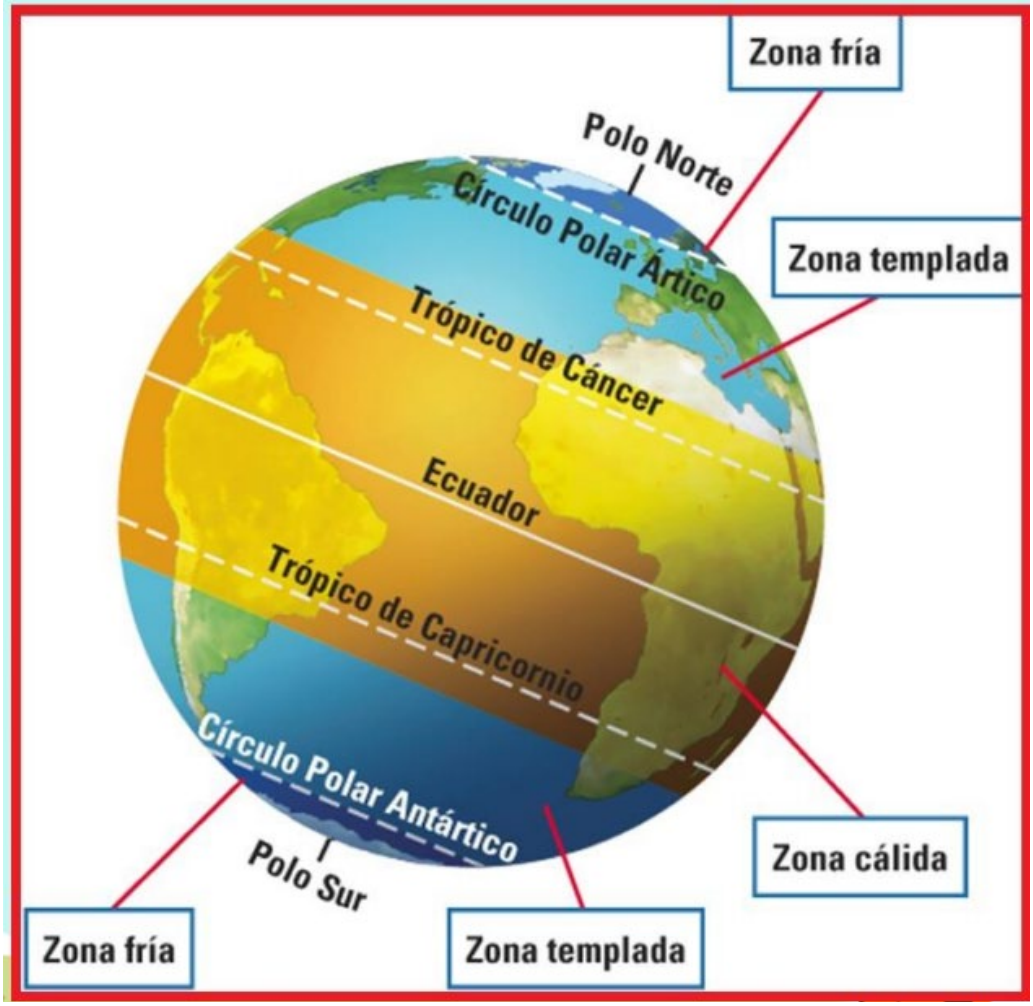

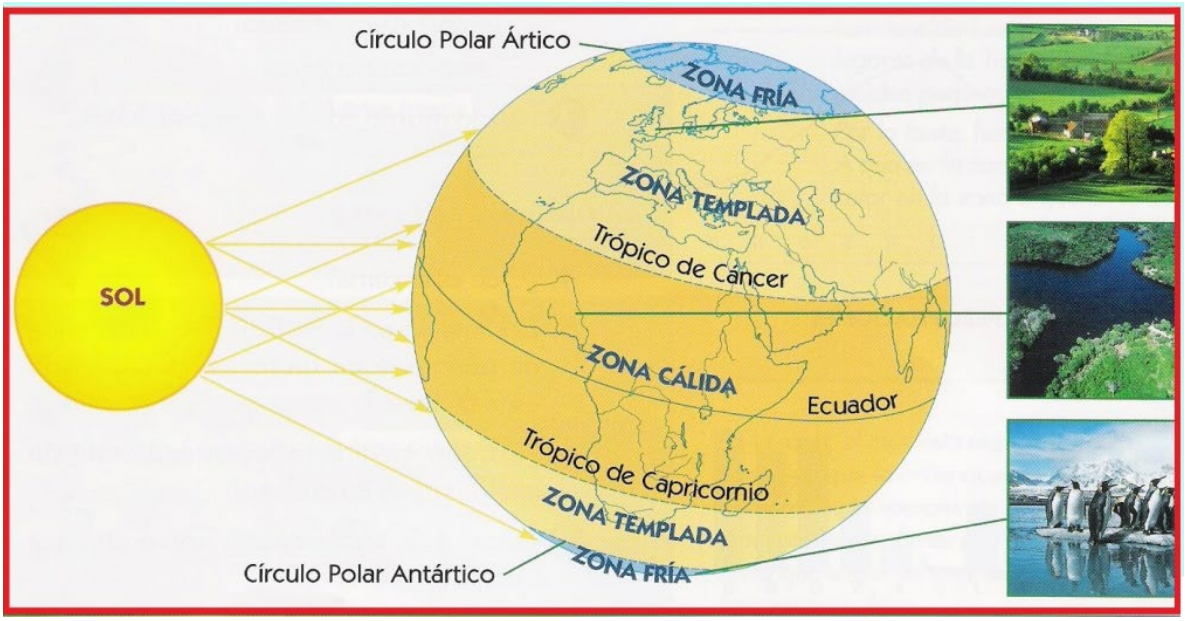

✓Las diferentes zonas climáticas de la Tierra originan una diversidad de paisajes que tienen características propias.

✓ **La cantidad de vegetación presente en estos paisajes es producto de la cantidad de luz y calor y de la humedad que absorbe la superficie terrestre en las distintas zonas climáticas**

Los invito a observar las siguientes imágenes

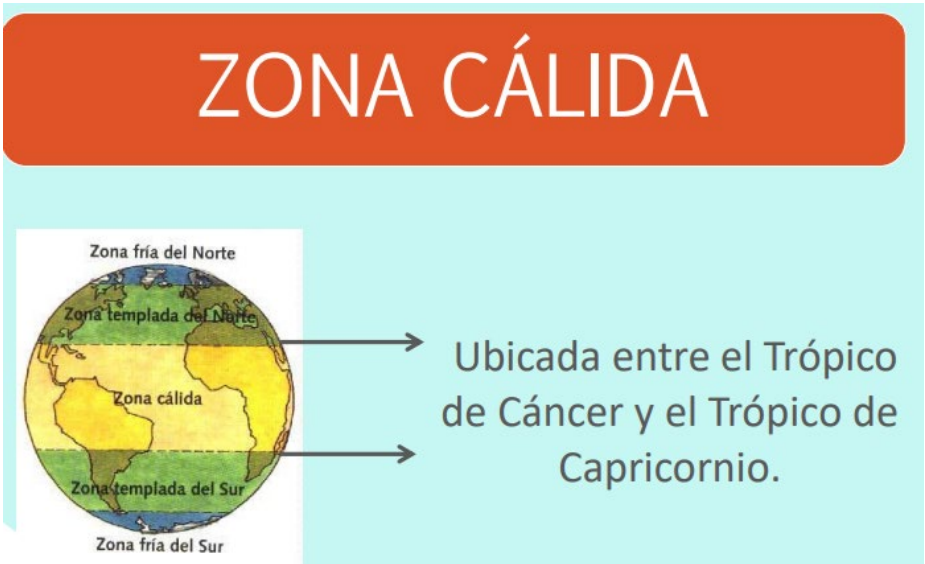

¿Cómo crees que es el clima de estos lugares?

<u>Zona cálida</u>

- La zona cálida se ubica entre los trópicos y suele ser

Lee la información del texto escolar

Paisajes tropicales

Selva

Selva amazónica, América del Sur.

Clima: caluroso y húmedo, con lluvias todo el año.

Flora: vegetación abundante, con grandes árboles, arbustos, hierbas, flores y trepadoras.

Algunos lugares: América del Sur (Amazonas), América Central (parte de Guatemala y México), África (Congo), Asia (Indochina) y Oceanía (Nueva Zelanda y Borneo).

Sabana

Sabana africana.

Clima: muy caluroso todo el año, aunque en la noche la temperatura suele descender un poco. Tiene una estación seca prolongada y otra lluviosa corta e intensa.

Flora: formada por hierbas, arbustos y árboles aislados.

Algunos lugares: África (Tanzania), América del Sur (llanos de Venezuela), Asia (India) y Oceanía (parte de Australia).

Paisajes secos

Desierto

Desierto del Sahara.

Clima: casi no llueve, por lo tanto, es un paisaje muy seco. Existen grandes diferencias de temperatura entre el día y la noche.

Flora: tienen escasa vegetación adaptada a la escasez de agua. Esta es baja y dispersa.

Algunos lugares: África (desierto del Sahara), América del Sur (desierto de Atacama), América del Norte (Arizona-Sonora); Asia (Gobi) y Oceanía (desiertos de Australia).

Estepa cálida

Estepa en el norte de Chile.

Clima: es semiárido, se encuentra a continuación de los desiertos. Tiene altas temperaturas en verano y moderadas en invierno. Sus lluvias son escasas y se concentran en invierno.

Flora: escasa vegetación de tipo arbustiva.

Algunos lugares: América del Sur (parte del norte de Chile), Asia Central, centro de América del Norte, sur de África, Oceanía (parte de Australia).

ZONA TEMPLADA

✓ Recibe los rayos del sol de manera oblicua.



ZONA TEMPLADA

Zona Templada del Hemisferio Norte: ubicada entre el Trópico de Cáncer y el Círculo Polar Ártico.

Zona Templada del Hemisferio Sur: ubicada entre el Trópico de Capricornio y el Círculo Polar Antártico.

¿Cómo crees que es el clima de este lugar?

Zona Templada

▪La mayor parte del territorio habitado de Chile se ubica en la zona templada. En las zonas templadas, ubicadas entre los trópicos y los círculos polares, habita la mayor parte de los seres humanos y, al igual que en la zona cálida, existen distintos paisajes.

Lee la información del texto escolar

Paisaje mediterráneo

Región de Piamonte, Italia.

Clima: tiene veranos cálidos y secos, e inviernos fríos y lluviosos.

Flora: su vegetación es de arbustos y árboles bajos como el espino, el quillay y el boldo, entre otros.

Algunos lugares: Europa alrededor del mar Mediterráneo, Zona Central de Chile.

Paisaje marítimo lluvioso

Wikimedia Commons

Puerto Williams, Chile.

Clima: muy influenciado por su cercanía al océano. Tiene temperaturas moderadas en verano y frías en invierno. Llueve todo el año, aunque con más intensidad en invierno.

Flora: vegetación siempre verde. Hay especies como el canelo, alerce y luma, helechos y musgos.

Algunos lugares: América del Sur (sur de Chile y Argentina), América del Norte (parte de Alaska), Europa (costas de los países de la zona norte).

Los paisajes de altas montañas son azonales ya que se ubican en todas las zonas climáticas en los lugares donde hay cordilleras y altas montañas.

Paisaje de alta montaña

Clima: posee bajas temperaturas y abundantes precipitaciones que suelen ser en forma de nieve.

Vegetación: su vegetación es escasa, pues predomina la presencia de nieve, además varía de una montaña a otra, pues depende de la altitud y el lado de la montaña en la que se encuentre.

Algunos lugares: América (cordillera de los Andes), Asia (cordillera del Himalaya), Europa (los Alpes).

ZONA FRÍA

Recibe los rayos del sol de manera oblícua y lejana.

Zona fría del Hemisferio Norte: ubicada en el Círculo Polar Ártico.

Zona fría del Hemisferio Sur: ubicada en el Círculo Polar Antártico.

Las zonas frías

Las zonas frías se localizan entre los círculos polares y los polos norte y sur. El **frío** es el factor dominante del clima polar, con temperaturas que en el año promedian los **10º bajo cero**, es decir, bajo el punto en el que el agua se congela.

Los inviernos son largos y muy fríos, con muy pocas horas de luz solar; en cambio, los veranos son cortos, con temperaturas menos frías y con muchas horas de luz. Las precipitaciones en estas zonas son en forma de **nieve**. La vegetación típica es la **tundra**, formada por musgos, líquenes, hierbas y arbustos enanos.

En estas zonas las personas han debido adaptarse al frío, la nieve y, en los inviernos, a la falta de luz solar durante muchas horas. Por ello, vive muy poca población.

Niños de la comunidad inuit.

Paisaje de taiga

Bosque boreal en Noruega.

Clima: se ubica en el hemisferio norte en la zona fría. Su clima es frío y húmedo, con grandes variaciones entre invierno y verano.

Flora: se caracteriza por tener diversas especies de árboles que conforman bosques, como el bosque boreal.

Algunos lugares: América del Norte (Canadá y norte de Estados Unidos), Europa (Noruega, Suecia, Rusia).

Paisajes polar

Clima: tiene bajas temperaturas y escasas precipitaciones que suelen ser en forma de nieve.

Vegetación: su vegetación es escasa, en meses de verano, crecen musgos, líquenes y matorrales.

Algunos lugares: América del Norte (Alaska, Groenlandia), Antártica.

Página 51

LOS INVITO A TRABAJAR

Actividades

1- Realiza la actividad de la página 51 del texto escolar.

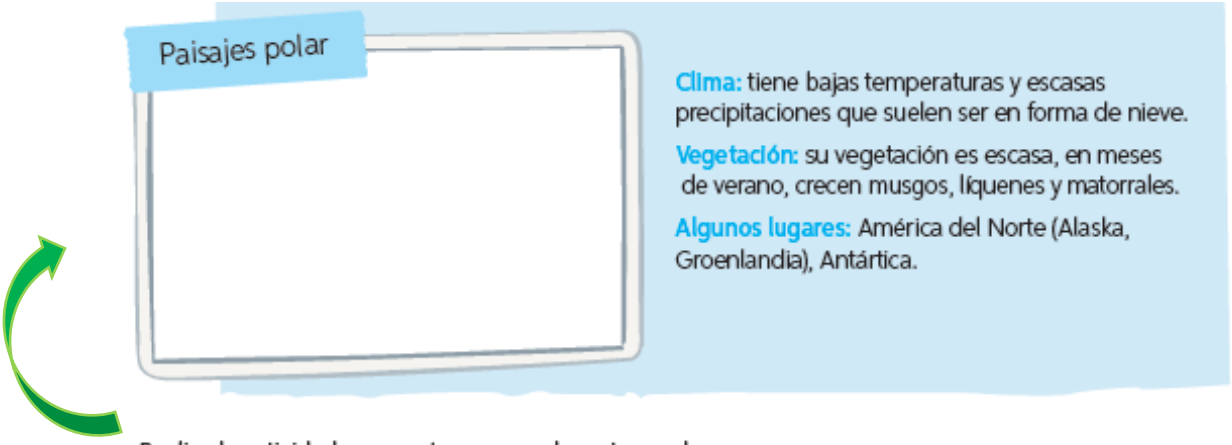

Realiza la actividad propuesta y responde en tu cuaderno.

1. Busca y recorta una imagen de paisaje polar y otra de alta montaña. Luego, pega cada imagen en el espacio que le corresponde.
2. Escoge dos paisajes de estas páginas y establece similitudes y diferencias entre ellos. Considera el clima y la vegetación. Incorpora información del **Para saber más**.

Similitudes	**Diferencias**
Paisaje _____	Paisaje _____
Clima:	Clima:
Vegetación:	Vegetación:
Dato curioso	Dato curioso

2. Realiza la actividad de la página 54.

Lo que sé

Realiza las actividades propuestas.

1 Observa las siguientes imágenes y escribe el nombre del paisaje que se representa en cada una de ellas.

1 _____

2 _____

3 _____

4 _____

REFLEXIÓN

¿En cuál zona climática encontramos el clima tropical?

a) Zona Cálida.
b) Zona Templada.
c) Zona Fría.
d) Zona Calurosa.

Pausa activa: Completa siguiendo el patrón

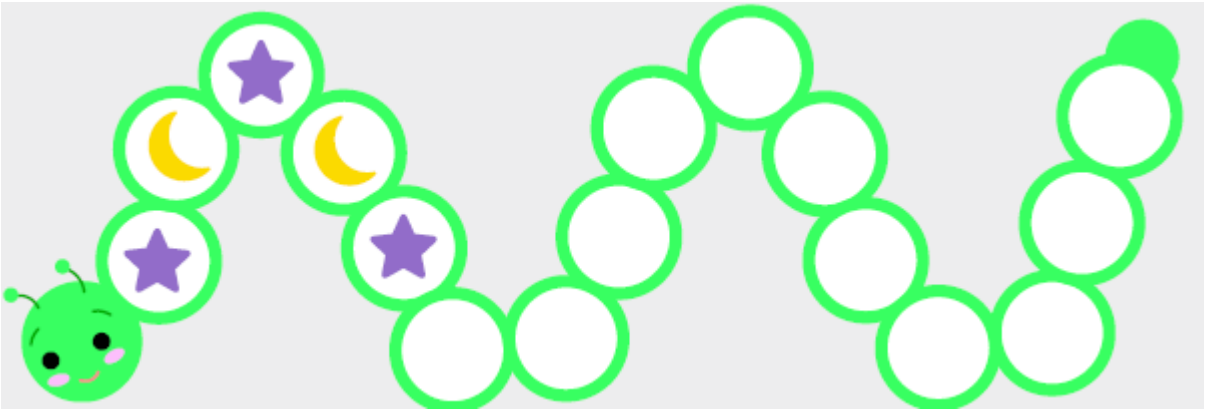

(No olvides escribir fecha y objetivo de la clase en el trabajo y enviar las fotos de las actividades realizadas a tu profesor (a)

Enviar trabajo al correo de profesora jaqueline.madrid@colegio-manuelrodriguez.cl

Comunicarse en caso de duda o consulta al celular +56935624619

Retroalimentación:

1- ¿Qué has aprendido en la clase?
2- ¿Cómo lo has hecho o aprendido?
3- ¿Qué dificultades has tenido?
4- ¿Para qué te ha servido?
5- ¿En qué otras ocasiones podrías utilizar lo que has aprendido/ esta forma de aprender?

Excelencia Académica 2020-2021

SNED
2020 - 2021

Historia, geografía y ciencias sociales

Tercero básico

Profesora: Jacqueline Madrid

Asistente: Jael Ramos

Objetivo: Conocer y distinguir los diferentes climas presentes en las zonas climáticas del planeta mediante apoyo visual para realizar las actividades del texto del estudiante.
OA: Identificar y ubicar en mapas las principales zonas climáticas del mundo y dar ejemplos de distintos paisajes que pueden encontrarse en estas zonas y de cómo las personas han elaborado diferentes estrategias para habitarlas.

ZONAS CLIMATICAS:

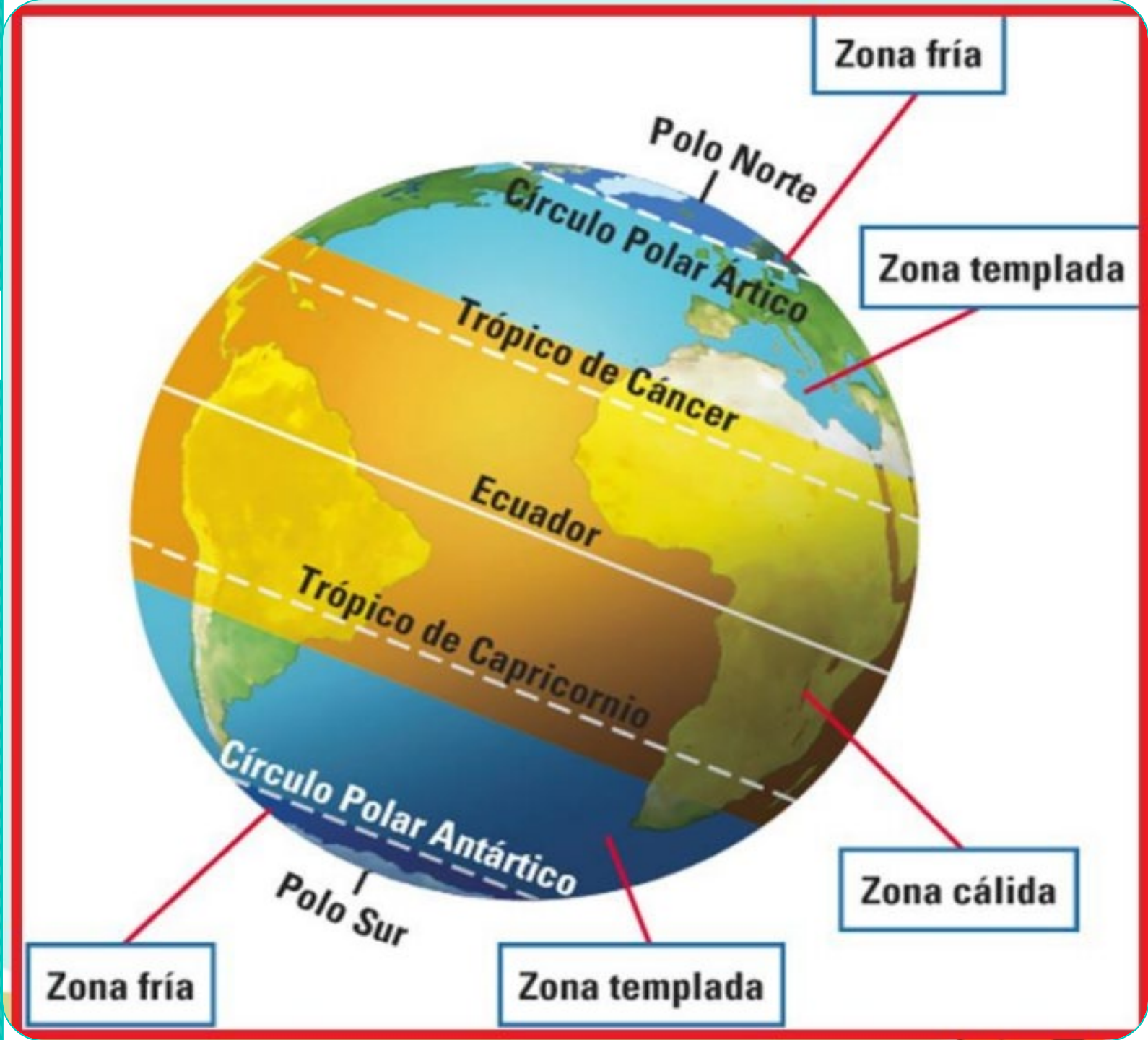

ZONA CALIDA:

Zona cálida

▪La zona cálida es donde los rayos del sol llegan directamente a la tierra, se ubica entre los trópicos y suele ser calurosa durante todo el año. Los paisajes de esta zona varían desde aquellos donde prácticamente llueve todo el año a otros que son muy secos. Esto permite agruparlos en húmedos o tropicales, como la selva y la sabana; y en secos, como el desierto cálido y la estepa cálida.

ZONA TEMPLADA:

Zona Templada

▪La zona templada es donde los rayos del sol no llegan directamente.

La mayor parte del territorio habitado de Chile se ubica en la zona templada.

En las zonas templadas, ubicadas entre los trópicos y los círculos polares, habita la mayor parte de los seres humanos y, al igual que en la zona cálida, existen distintos paisajes.

Presentan estaciones bien definidas con veranos cálidos e inviernos fríos con mayor variación a medida que la latitud aumenta.

Zona fría:

Las zonas frías se localizan entre los círculos polares y los polos (norte y sur).
El frio es el que domina en el clima polar, con temperaturas que en el año promedian los 10° bajo cero.
Los inviernos son largos y muy fríos, con muy pocas horas de luz solar, los veranos son cortos con temperaturas menos frías y con muchas horas de luz.

Los invito a ver el siguiente video:

https://www.youtube.com/watch?v=MofSQ5WlrsE

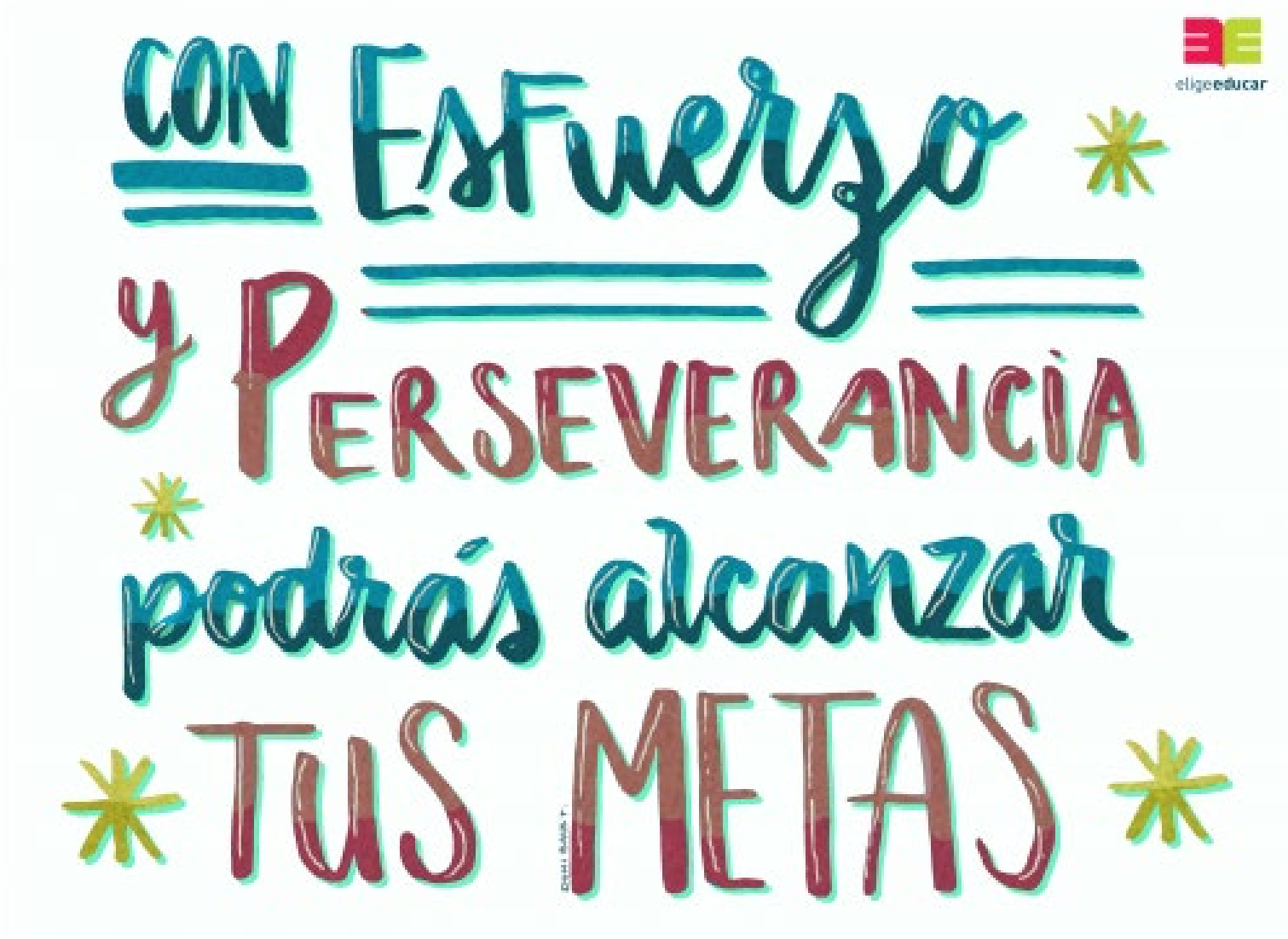
CON Esfuerzo
y Perseverancia
podrás alcanzar
TUS METAS
eligeeducar